Конденсатор колебательного контура подключен к источнику постоянного напряжения. Графики *А* и *Б* представляют зависимость от времени t физических величин, характеризующих колебания в контуре после переключения ключа К во второе положение в момент $t = 0$.

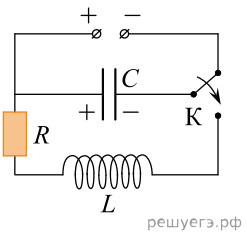

Установите соответствие между графиками и физическими величинами, зависимости которых от времени эти графики могут представлять.

К каждой позиции первого столбца подберите соответствующую позицию второго и запишите в таблицу выбранные цифры под соответствующими буквами.

ГРАФИКИ

А)

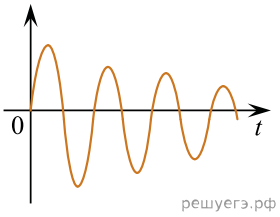

Б)

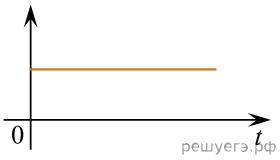

ФИЗИЧЕСКИЕ ВЕЛИЧИНЫ

1. Заряд левой обкладки конденсатора
2. Сила тока в катушке
3. Энергия электрического поля конденсатора
4. Индуктивность катушки

А	Б