Конденсатор колебательного контура подключен к источнику постоянного напряжения (см. рисунок). Графики *А* и *Б* представляют изменения физических величин, характеризующих колебания в контуре после переведения переключателя *K* в положение 2. Установите соответствие между графиками и физическими величинами, зависимости которых от времени эти графики могут представлять. К каждой позиции первого столбца подберите соответствующую позицию второго и запишите в таблицу выбранные цифры под соответствующими буквами.

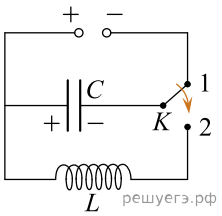

ГРАФИКИ

А)

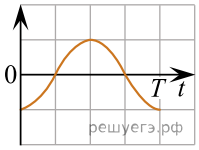

Б)

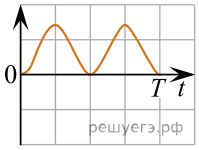

ФИЗИЧЕСКИЕ ВЕЛИЧИНЫ

1) Заряд правой обкладки конденсатора
2) Заряд левой обкладки конденсатора
3) Энергия магнитного поля катушки
4) Энергия электрического поля конденсатора

А	Б